نام و نام خانوادگی پاسخنامه تشریحی تکلیف شماره کلاس

۱۷٫۷۵

۱

الف) $y^3 = x^2 + 1$

$y = \sqrt[3]{x^2+1}$

تابع است

چون

هر ورودی دارای خروجی منحصر به فرد حقیقی متناظر

ب) $y = -x^2 + x + 2$

$y = -(-x^2 + x + 2) = x^2 - x - 2$

$\Delta = 1^2 - 4(1)(-2) = 9 > 0$

تابع نیست ✗

پ) $\sqrt{x-2} + |y-2| = 0$

$\sqrt{x-2} = 0 \Rightarrow x = 2$

$|y-2| = 0 \Rightarrow y = 2$

تابع است ✓

ت) $x = \cos y$

$x = 0$

$y = \frac{\pi}{2}$

$y = \frac{3\pi}{2}$


تابع نیست ✗

(۲)

۲

الف) $f(x) = c$

ضابطه $f(x) = 1$



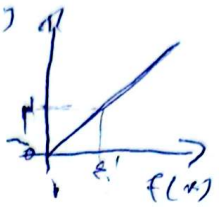
ب) $y = mx + b$

$2 = 2(1) + b$

$2 = 2 + b$

$b = 0$

ضابطه $f(x) = 2x$ ✓ (۲)



۳

الف) $y = ax + b$

$a = 1$

$b = 0$

$a + 2b = 1 + 2(0)$

$a + 2b = 1 + 0$

$a + 2b = 1$

(۱)

ب)

$x_S = \frac{-b}{2a} = -\frac{a}{2} = 2 \rightarrow a = -4$

$y_S = 1 \rightarrow (2)^2 - 4(2) + b = 1 \rightarrow b = 5$

$a + 2b = -4 + 2(5) = 6$

۴

الف) $y = 2x + 1$

$x = 0$

$y = 1$

$y = 0$

$x = -0.5$

شیب $= 2$

ب) $y = -x + 1$

$a = -1$

$b = 1$

$x = 0$

$y = 1$

$0 = -x + 1$

$x = 1$ ، $x = \frac{1}{2}$


پ) $y = x^4$

۱/۵

$y = x^0$

۵

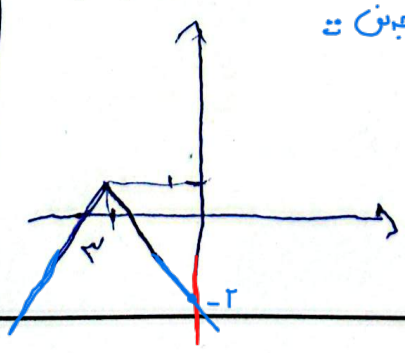
الف) $y = |x - 2| + 2$



ب) $y = -|x + 2| + 1$

به عوض زمینا توجه نشد

۱٫۷۵



Scanned with CamScanner

۶

الف) $x(x-4)=0$

$x=0$ یا $x=4$

$D_f = R-\{0,4\}$

$(-\infty,0)\cup(0,4)\cup(4,+\infty)$ ✓

ب) $a=1$

$b=-1$

$c=1$

$\Delta = (-1)^2-4(1)(1)$

$\Delta=-3$

$D_f=R$

$(-\infty,+\infty)$

پ) $a=1$

$b=1$

$c=4$ (۲)

$\Delta = 1^2-4(1)(4)$

$\Delta=-15$

$D_f=R$ ✓

ت) $x^4-4x^2=0$

$x^2(x^2-4)=0$

$(x-2)(x+2)$ $D_f=R-\{0,2,-2\}$ ✓

$x^2=0 \quad x=0$

$x=2$

$x=-2$

۷

الف) $6-2x\geq 0$

$6\geq 2x$

$3\geq x$

ب) $x^2+1\geq 0$

$x^2\geq -1$

$a=1$

$b=0$

$c=1$

$\Delta = b^2-4ac=0^2-4(1)(1)=-4$

$D_f=R$

پ) $x-2\geq 0$

$x\geq 2$

$x-3\neq 0$

$x\neq 3$

$D_f=[2,3)\cup(3,+\infty)$

ت) $|x|+|x|^2=0$

$|x|(1+|x|)=0$

$|x|=0$ یا $|x|=-1$ (ق ق ق)

$x=0$

$D_f=R-\{0\}$ (۴) ✓

۸

محورهای مختصات حتما کشیده شود

۱٫۲۵

۹

محورهای مختصات حتما کشیده شود.

۱٫۲۵

۱۰

الف) $\sin 120^\circ = \frac{\sqrt{3}}{2}$ و $\cos 120^\circ = -\frac{1}{2}$

120° 90° 60°

$\frac{\pi}{4}$ $\frac{5\pi}{6}$ (۲) ✓

ب) $\cos 240^\circ = -\frac{1}{2}$ کسینوس $\frac{4\pi}{3}$

$\frac{\sqrt{3}}{2}$ $\frac{4\pi}{3}$ $\frac{5\pi}{3}$

$-\frac{\sqrt{3}}{2} \Rightarrow 240^\circ, 300^\circ$

Scanned with CamScanner